INSTITUTO DE EDUCAÇÃO INFANTIL E JUVENIL

OUTONO, 2020. LONDRINA, 5 DE MAIO.

NOME: _____

TURMA: 1º ANO

MATEMÁTICA – MEDIDAS DE TEMPO-CALENDÁRIO

INÍCIO: 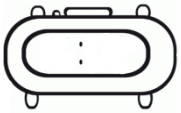

O **OTTÁVIO** FEZ ANIVERSÁRIO DIA 3 DE MAIO.

O SEGUNDO DOMINGO DO MÊS DE MAIO É O **DIA DAS MÃES**.

I. OLHE NO CALENDÁRIO DE SUA CASA.

II. VEJA EM QUE DIA DA SEMANA COMEÇOU O MÊS DE MAIO.

III. AGORA QUE JÁ SABE PREENCHA O CALENDÁRIO DO MÊS DE MAIO.

IV. MARQUE DE VERMELHO OS DIAS DO FINAL DE SEMANA-SÁBADO E DOMINGO.

V. CIRCULE O DIA 1º DE MAIO, QUE FOI O DIA DO TRABALHADOR.

VI. LIGUE A FOTO DO **OTTAVIO** COM O DIA DO ANIVERSÁRIO DELE.

VII. ESCREVA **MÃE** NO DIA QUE SERÁ O **DIA DAS MÃES.**

MÊS _____ ANO _____

DOMINGO	SEGUNDA-FEIRA	TERÇA-FEIRA	QUARTA-FEIRA	QUINTA-FEIRA	SEXTA-FEIRA	SÁBADO
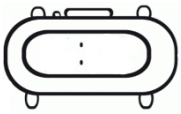
TÉRMINO: