Instituto de Educação Infantil e Juvenil

Online IEIJ
ATIVIDADES COM FERRAMENTAS DIGITAIS

_____, 2020. Londrina, 31 de agosto.

Nome: _____ Turma: 8º Ano

Área do conhecimento: **MATEMÁTICA** Professora Silvia

ÁREA DE FIGURAS PLANAS - 4

Lembre-se que nossa aula de videoconferência foi alterada para as quartas-feiras, OK?

Ao final da atividade, lembre-se de colocar sua nota de DPO.

INDIVIDUAL

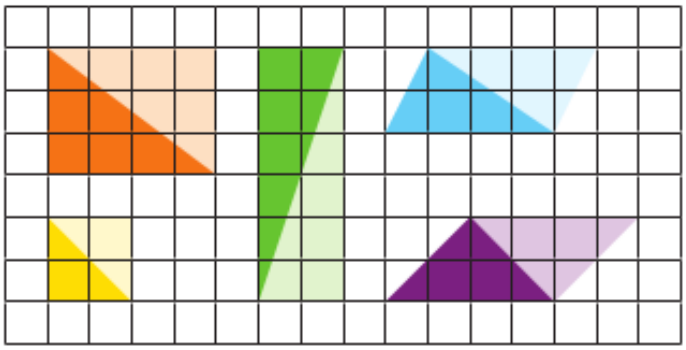

Como calcular a área de uma superfície triangular?

Observe as figuras ao lado. Em cada uma delas, há uma parte mais escura, que forma uma região triangular.

Compare a área de cada uma delas com a da fi gura toda.

1. Escreva, com suas próprias palavras, como calcular a área de cada superfície triangular. Utilize suas dimensões e a área da figura toda.

_____

_____

2. Use a fórmula que você encontrou e calcule a área de cada uma das figuras:

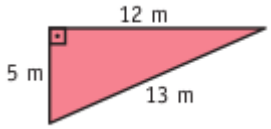

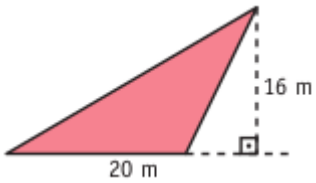

DPO: ___ ___ ___